洛阳晚报
编辑/杨 柳 校对/俊 峰
2010年4月16日 星期五

笑一笑

爆笑语文

语文考试过后，同学们的答卷五花八门。

1.何当共剪西窗烛，同学答：夫妻对坐到天明。（正解为“却话巴山夜雨时”）

2.蚍蜉撼大树，同学答：一动也不动。（正解为“可笑不自量”）

3.穷则独善其身，同学答：富则妻妾成群。（正解为“达则兼济天下”）

4.身无彩凤双飞翼，同学答：拔毛凤凰不如鸡。（正解为“心有灵犀一点通”）

5.西塞山前白鹭飞，同学答：东村河边爬乌龟。（正解为“桃花流水鳜鱼肥”）

6.我劝天公重抖擞，同学答：天公对我吼三吼。（正解为“不拘一格降人才”）

7.洛阳亲友如相问，同学答：请你不要告诉他。（正解为“一片冰心在玉壶”）

8.葡萄美酒夜光杯，同学答：金钱美人一大堆。（正解为“欲饮琵琶马上催”）

9.天生我才必有用，同学答：老鼠儿子会打洞。（正解为“千金散尽还复来”）

10.人生自古谁无死，同学答：只是死的有先后。（正解为“留取丹心照汗青”）

小测试

涂鸦看性格

你在闲得无聊或苦闷烦恼时，在开会、听课、打电话时，喜欢随手在纸上乱涂乱画吗？心理学家经过多年研究证实，这种无意识的涂鸦，恰恰能真实地表露出你的某些性格特征呢。

你最常画的图形是什么呢？

A.三角形 B.圆形 C.锯齿形
D.连续打圈 E.波浪形 F.无规则图形
G.直线

成语接龙

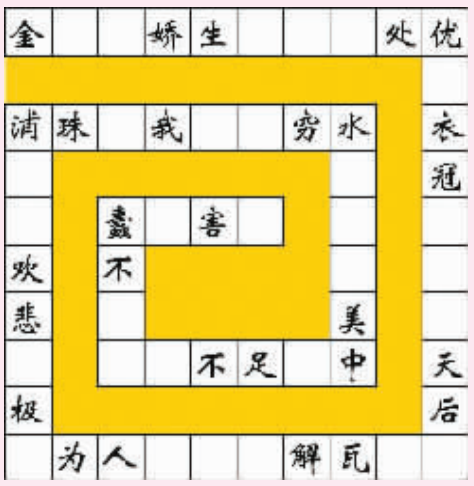

本版供稿：阿幽薇

测眼力

① 图中是一组物品的局部，请根据这些细节分析出这组物品一共有几件，南瓜的位置在从左数第几个？

② 图中一共有9组小动物，其中有2组中的动物完全相同，请您把它们找出来。

眼疾脑快

快跟朋友们比一比，看谁先走出迷宫。

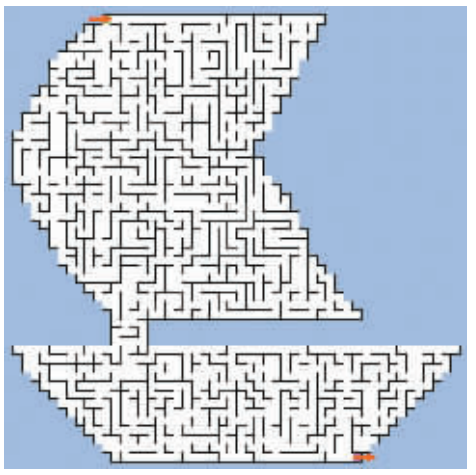

思维游戏

想一想，哪个图形可以完成这组序列图？

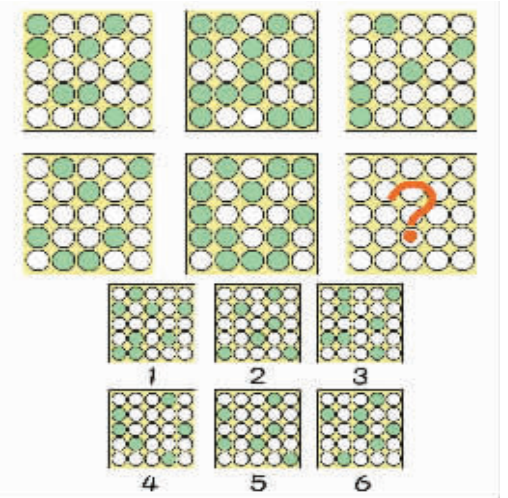

数字游戏

“数字九宫格”是由9个“九宫格”（图中红色实线所围的方阵）构成的，每个“九宫格”又是由9个小格构成的。玩家在每个小格里面填上1~9中的数字，使得每个数字在“九宫格”的每横行、每竖列及每个红色实线围住的3×3的“九宫格”中均只出现一次，不能重复。

1. 将数字1~9填入白色空格中。
2. 方格中斜线上方的数字为该数字右面对应的一组水平连续白色空格里的数字之和；斜线下方的数字为该数字下面对应的一组垂直连续白色空格里的数字之和。
3. 同一数字在每组水平或垂直空格里只能出现一次。

		8	4	3				5
2		7			6	8		
							6	
1					3		7	
		2				3		
3				2	7		9	
	2		1		5	4		
4								
		5		8		2	3	

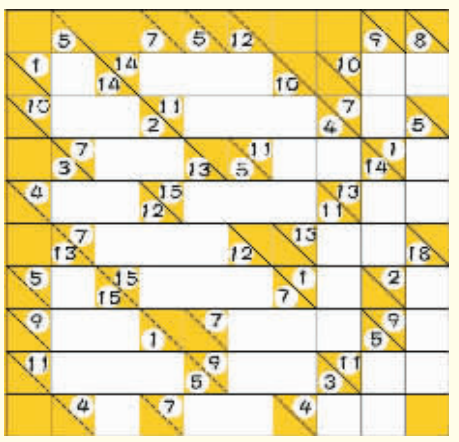

本期答案

小测试解析：选A的人一般思维敏捷，能很快接受新鲜事物，喜欢通过逻辑推理寻找结论。

选B的人一般足智多谋，万事都能考虑得很周全，知道如何为自己的将来制订计划。

选C的人大多有竞争意识，好胜心强，不甘示弱，有分析能力和批判精神。

选D的人多是通情达理、有安全感、与世无争的人。

选E的人大多灵活性强，反应快，能适应不同的环境，对自己的所作所为感觉良好。

选F的人悠然自得、逍遥自在，能对生活作出合理调整。

选G的人一般都精力充沛，平时闲不住，无时无刻不在找事干。

眼疾脑快答案：

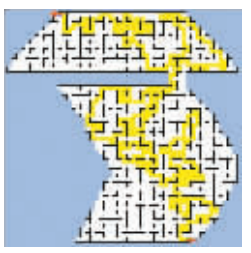

成语接龙答案：

思维游戏答案：4。每横行的三张图中，如果把左图和右图叠加在一起，就得到中间的图。

数字游戏答案：

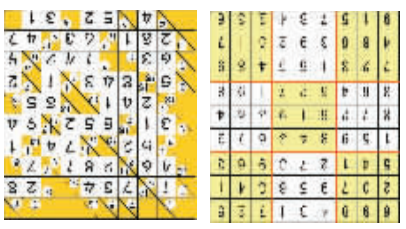

测眼力①答案：一共12件物品，南瓜在从左至右第8个。

测眼力②答案：4和9